

Teste dein Können: Subtraktion

1 Leichte Minusaufgaben lösen.

47 - 2 = ☐

86 - 5 = ☐

99 - 4 = ☐

46 - 6 = ☐

48 - 20 = ☐

69 - 40 = ☐

72 - 30 = ☐

97 - 70 = ☐

2 Der Zehner wird angeknabbert.

70 - 5 = ☐

30 - 6 = ☐

80 - 9 = ☐

50 - 7 = ☐

22 - 4 = ☐

51 - 8 = ☐

74 - 6 = ☐

63 - 7 = ☐

3 Schwere Minusaufgaben schrittweise am Rechenstrich lösen.

67 - 59 = __

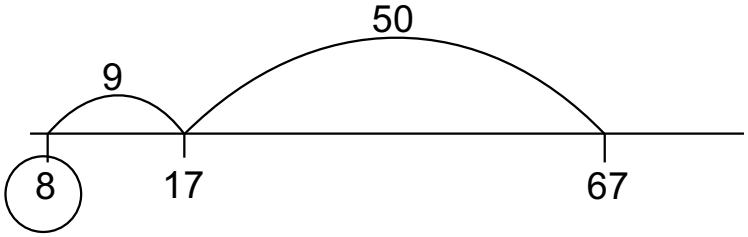

69 - 25 = ____ _____

64 - 38 = ____ _____

4 Welche Minusaufgaben wurden gerechnet?

□ - □ = □

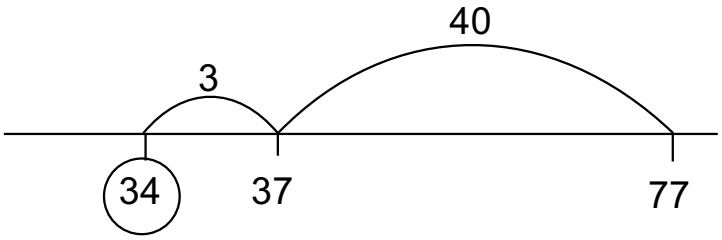

□ - □ = □

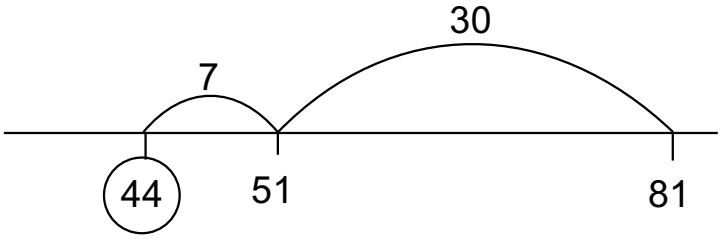

5 Schwere Minusaufgaben mit der Strategie Z-Z E-E lösen.

66 - 24 = 42	75 - 43 = □	97 - 34 = □
60 - 20 = 40	□ - □ = □	□ - □ = □
6 - 4 = 2	□ - □ = □	□ - □ = □
40 + 2 = 42	□ + □ = □	□ + □ = □

Wie bist du mit den Aufgaben zurecht gekommen? Schreibe auf!